1. Die Kinder der Klasse 2c haben zu ihren Lieblingssportarten ein Streifenbild gezeichnet.

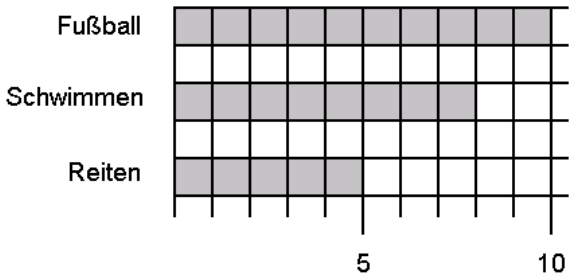

Stelle drei Fragen, die du mit diesem Schaubild beantworten kannst!

a) _____

a) _____

a) _____

2.

Tierarzt Dr. Wurm
Sprechstunden

Montag, Dienstag, Donnerstag, Freitag:
9.00 bis 12.00 Uhr, 16.00 bis 19.00 Uhr

Mittwoch:
9.00 bis 12.00 Uhr, 17.00 bis 20.00 Uhr

Samstag:
10.00 bis 13.00 Uhr

Wie viele Stunden hat der Tierarzt an diesen Tagen Sprechstunde?

Montag: _____

Mittwoch: _____

Samstag: _____

Stelle noch eine weitere Frage, die du mit diesem Schaubild beantworten kannst!

_____

3. Kinder haben ihre Lieblingstiere gewählt. Kreuze richtige Aussagen an!

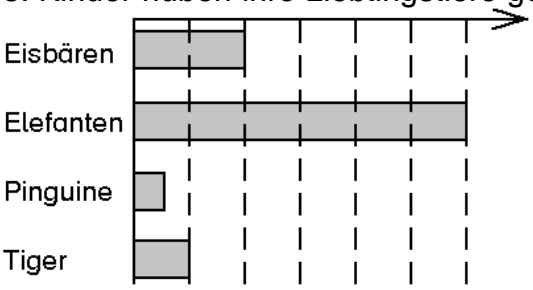

O Niemand wählte die Eisbären.

O Tiger bekamen etwa doppelt so viele Stimmen wie Pinguine.

O Alle wählten die Eisbären.

O Elefanten sind am beliebtesten.

4. Dieses Schaubild zeigt, welche Instrumente von Kindern gespielt werden. Schau im Bild nach und kreuze korrekt an!

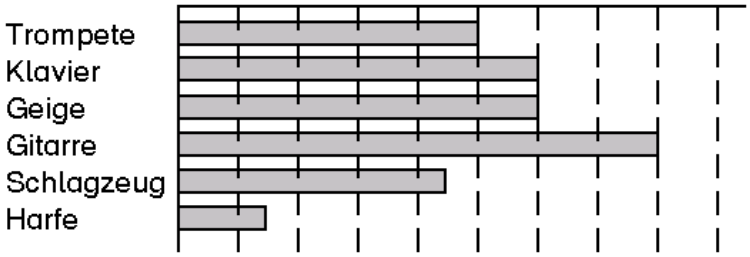

a) Die meisten Kinder spielen Schlagzeug.
O richtig O falsch

b) Aus dem Schaubild erkennt man nicht, wie viele Kinder Blockflöte spielen.
O richtig O falsch

c) Die meisten Kinder spielen Gitarre. O richtig O falsch

d) Niemand spielt Trompete. O richtig O falsch

e) Gleich viele Kinder spielen Klavier und Geige. O richtig O falsch

f) Es gibt etwas mehr Trompeter als Schlagzeuger. O richtig O falsch