1. 16 Kinder einer Klasse haben ihre liebsten Freizeitbeschäftigungen angegeben.

a) Färbe das Kreisdiagramm passend zu den Angaben der Kinder!

2 Kinder: Fernsehen (rot)
5 Kinder: Rad fahren (grün)
4 Kinder: malen (blau)
2 Kinder: fotografieren (gelb)
3 Kinder: basteln (schwarz)

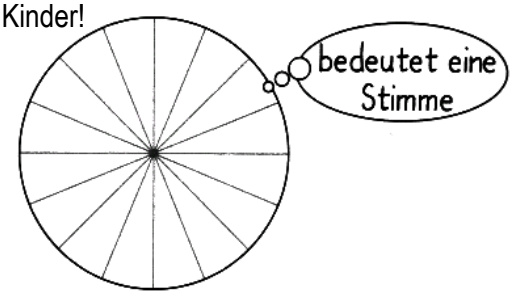

b) Welche zwei Freizeitbeschäftigungen wurden von den Kindern nicht genannt?

_____ _____

c) Ergänze die Lückensätze passend zum obigen Kreisdiagramm!

_____ ist am beliebtesten.

_____ und _____ sind gleich beliebt.

_____ und _____ sind insgesamt 8 Stimmen.

2. 20 Kinder einer anderen Klasse wurden nach ihren Lieblingsfächern befragt. Übertrage ihre Angaben vom Kreisdiagramm ins Säulendiagramm!

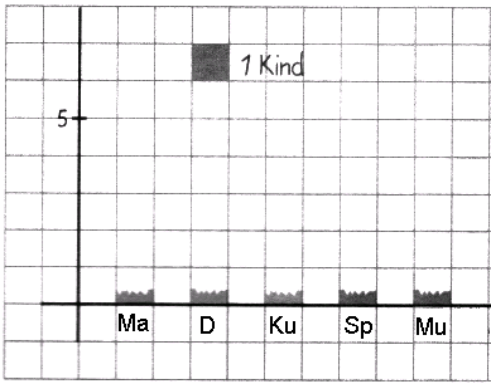
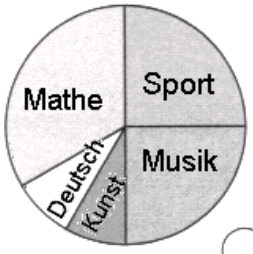
3. Auch Kinder einer weiteren Klasse wurden befragt. Welches Kreisdiagramm passt zu den folgenden Angaben? „Zwei Fächerpaare sind gleich beliebt. Am beliebtesten ist Mathe“. Kreuze an!